Libris.ro
Respect pentru oameni și cărți

TREC ÎN CLASA A V-A!

Magda Stan

Ce trebuie să știu la Istorie?

Caiet de activități

Conform OMEN 5003/02.12.2014



COLECȚIA OPILUL DEȘTEPT

LITERA Educational

Libris.RO
Respect pentru oameni și cărți

TREC ÎN CLASA A V-A!

Magda Stan

Ce trebuie să știu la Istorie?

Caiet de activități

Nume .....

Prenume.....

Clasa .....

Școala .....

COLECȚIA COPILUL DEȘTEPT

LITERA Educational

1 Timpul și spațiul în istorie

Libris.ro
Respect pentru oameni și cărți

Știu!

- **Istoria** studiază apariția și dezvoltarea societății umane, din cele mai vechi timpuri și până astăzi.
- **Timpul istoric** se împarte în ere, epoci și unități de timp: mileniul (1000 de ani), secolul sau veacul (100 de ani), deceniul (10 ani), anul. Evenimentele istorice pot fi ordonate cu ajutorul cronologiei, știință auxiliară istoriei.
- **Spațiul istoric** cuprinde teritoriul pe care se desfășoară evenimente din istorie. **Hărțile istorice** ne ajută să îl cunoaștem și să îl înțelegem.
- Istoria poate fi descoperită și studiată cu ajutorul **surselor istorice**. Acestea pot fi nescrise sau scrise.

Rezolv!

1 Citește cu atenție exemplul de mai jos și privește axa cronologică de pe paginile 4–5. Apoi completează secolul și epoca istorică în care s-au desfășurat evenimentele ilustrate.

Exemplu: Un mileniu numără 1000 de ani, respectiv 10 secole de câte 100 de ani fiecare. Anul **1359** face parte din secolul al **XIV**-lea, pentru că:

1	3	5	9
mileniu	secole	decenii	ani

13 secole (10 + 3) + **59** de ani (din secolul în curs) ⇒ 14 secole (secolul al XIV-lea)





a. În anul 330, împăratul roman Constantin cel Mare a întemeiat orașul Constantinopol (azi, Istanbul).

Anul 330:

secolul _____

Epoca _____

b. Construcția Castelului Bran, din Transilvania, s-a încheiat în anul 1388.

Anul 1388:

secolul _____

Epoca _____

c. Primul tren de călători din lume a început să circule în anul 1830.

Anul 1830:

secolul _____

Epoca _____

d. În anul 1969, oamenii au ajuns pentru prima dată pe Lună.

Anul 1969:

secolul _____

Epoca _____

Axa cronologică

	MILENIUL II	MILENIUL I	d.Hr.					MILENIUL I				
			Sec. I	Sec. II	Sec. III	Sec. IV	Sec. V	Sec. VI	Sec. VII	Sec. VIII	Sec. IX	Sec. X
		î.Hr.	1-100	101-200	201-300	301-400	401-500	501-600	601-700	701-800	801-900	901-1000
Preistoria	Epoca Antică (Antichitatea)							Epoca Medievală (Evul Mediu)				

Libris.RO
Respect pentru oameni și cărți

2 Privește imaginile de mai jos. Plasează în dreptul fiecărui grup de personaje o cifră de la 1 la 3. Cifra 1 va indica epoca istorică cea mai îndepărtată de zilele noastre, iar cifra 3, pe cea mai apropiată.



3 În imaginea alăturată sunt redate atât surse istorice scrise, cât și surse nescrise. Le poți descoperi pe cele scrise? Notează-le pe spațiile de mai jos.

_____

_____

4 Privește cu atenție harta istorică a *Țărilor Române unite sub conducerea lui Mihai Viteazul (1600)*, apoi completează enunțurile de mai jos cu denumirile corespunzătoare.

a. Statul cu care Țările Române se învecinau pe direcția nord-vest se numea _____.

b. La sud de Țările Române se afla statul numit _____.

c. Cetatea situată, pe hartă, la granița nordică a Moldovei se numea _____.

Autoevaluare

Verifică răspunsurile la pagina 24!

Am rezolvat corect:

- ☐ Exercițiul 1
- ☐ Exercițiul 2
- ☐ Exercițiul 3
- ☐ Exercițiul 4

Am obținut:

- Aur – toate exercițiile corecte
- Argint – 3 exerciții corecte
- Bronz – 1-2 exerciții corecte

MILENIUL II										MILENIUL III
Sec. XI	Sec. XII	Sec. XIII	Sec. XIV	Sec. XV	Sec. XVI	Sec. XVII	Sec. XVIII	Sec. XIX	Sec. XX	Sec. XXI
1001-1100	1101-1200	1201-1300	1301-1400	1401-1500	1501-1600	1601-1700	1701-1800	1801-1900	1901-2000	2001-2100
Epoca Medievală (Evul Mediu)						Epoca Modernă				Epoca Contemporană

2 Comunitatea locală și națională

Elibris.RO
Respect pentru oameni și cărți

Știu!

- **Comunitatea locală** este alcătuită din locuitorii unei așezări rurale (un sat ori o comună, formată din mai multe sate) sau urbane (un oraș).
- **Comunitatea națională** îi include, de regulă, pe cetățenii unui stat aflat pe un anumit teritoriu.
- Națiunea română s-a format în Epoca Modernă. Pe lângă români, pe teritoriul actual al statului român trăiesc și cetățeni care au o altă limbă maternă. Aceștia sunt membri ai **minorităților naționale**: maghiară, germană, rromă, sârbă, bulgară, turcă, ucraineană etc.
- **Locurile istorice** din comunitate amintesc despre trecutul acesteia și despre oamenii care au muncit și au luptat pentru așezarea respectivă.

Rezolv!

1. În dreptul fiecăreia dintre imaginile de mai jos, scrie tipul de comunitate redat (rurală sau urbană). Apoi, pe foaia liniată, descrie, într-un text de 10 rânduri, comunitatea în care trăiești.

A.

B.